Endspiel Aufgaben Blatt 24

Analysiere die folgenden Endspielstellungen!

Aufgabe 1



Weiß am Zuge.

Aufgabe 2



Weiß am Zuge.
Soll sich der König über e2 oder e3 annähern?

Aufgabe 3



Schwarz am Zuge.

Aufgabe 4



Weiß am Zuge.